TUGAS AKHIR EVALUASI PEMBELAJARAN
KELAS 5 TEMA 5 SUBTEMA 2 PB 1

1.Kisi-kisi soal
2.Soal Evaluasi
3.Kunci Jawaban
4.Link Google Form

Oleh :
Muhamamad Hendra Hamidi, S.Pd

SDN NANGELA
KECAMATAN NANGGUNG KABUPATEN BOGOR

KISI-KISI SOAL PENILAIAN EVALUASI

Satuan Pendidikan : SDN Nangela
Kelas/Semester : 5 /1
Tema : 5. Ekosistem
Sub Tema/Pb : 2. / PB 1
Tahun Pelajaran : 2020/2021

NO	MUATAN PELAJARAN	KOMPETESI DASAR		INDIKATOR SOAL	BENTUK SOAL	LEVEL KOGNITIF	BOBOT	NO SOAL
1	Bahasa Indonesia	3.7	Menguraikan konsep-konsep yang saling berkaitan pada teks nonfiksi	Mnyebutkan definisi pikiran utama	PG	L1, C1	1	1
				Disajikan sebuah paragraf menentukan ide pokok	Essay	L1, C1	3	1
2	IPA	3.5	Menganalisis hubungan antar komponen ekosistem dan jaring-jaring makanan di lingkungan sekitar.	Disajikan sebuah gambar untuk diidentifikasi mengenai rantai makanan	PG	L2, C2	1	2
				Menyebutkan salah satu urutan dalam rantai makanan	PG	L1, C1	1	3
				Disajikan gambar rantai makanan dan diuraikan setiap urutannya	Essay	L2, C2	3	2

Nanggung, 2020
Guru Kelas

Muhammad Hendra Hamidi, S.Pd
NIP. 198911252019021003

Berikan tanda silang (x) pada jawaban yang benar !

1. Kalimat yang berisi pikiran utama teks disebut kalimat....
   a. utama
   b. tambahan
   c. pendukung
   d. pertanyaan
2. . Perhatikan rantai makanan berikut!

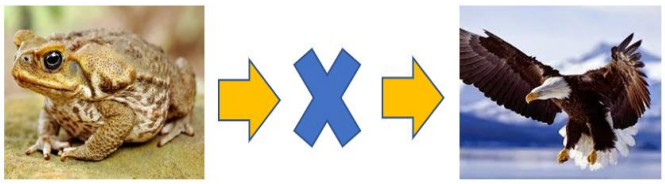

Makhluk hidup yang tepat untukmengganti huruf X adalah . . ..

a.

c. 

b.

d.

3. Jamur atau bakteri dalam rantai makanan disebut juga …
   a. produsen
   b. konsumen 1
   c. pengurai
   d. konsumen 2

Isilah titik titik dengan jawaban yang tepat !

1. Apa yang dilakukan Dayu dan teman-teman?

> Suatu ekosistem teridri atas komponen biotik dan komponenabiotik.Sebuah lingkungan terdiri atas bagian yang hidup (biotik)dan bagian tak hidup (abiotik). Bagian yang hidup di sebuah lingkunganterdiri atas tumbuhan, hewan, dan makhluk hidup lainnya. Bagianlingkungan yang tak hidup terdiri atas cahaya matahari, air, udara dantanah.

Ide pokok paragraf diatas adalah.....

2.

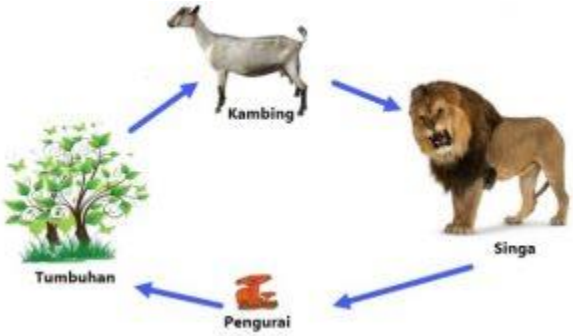

Jelaskan uruta rantai makanan diatas .

Kunci Jawaban

PG.

1. a
2. d
3. c

Essay

1. Suatu ekosistem teridri atas komponen biotik dan komponen abiotik
2. Rumput sebagai produsen di makan oleh kambing sebagai konsumen , kambing dimakan oleh singa sebagai konsumen II, singa mati kemudian diubah oleh bakteri.jamur pengurai menjadi unsur hara yang akan dimanfaatkan oleh tumbuhan.

$$\frac{\text{Skor maksimal}}{6} \times 100 = \ldots\ldots\ldots\ldots$$

Evaluasi Kelas 5

Tema 5 Subtema 2 Pb 1

* Wajib

https://forms.gle/QPDhevrphtcjc3ZFA

1. Nama *

2. Kelas *

Berikan tanda silang (x) pada jawaban yang benar !

3. 1. Kalimat yang berisi pikiran utama teksdisebut kalimat ... *

Tandai satu oval saja.

- a. utama
- b. tambahan
- c. pendukung
- d. pertanyaan

4. 2. Perhatikan rantai makanan berikut! *



Makhluk hidup yang tepat untukmengganti huruf X adalah ...

Tandai satu oval saja.

a.

b.

c.

d.

5. 3. Jamur atau bakteri dalam rantai makanan disebut juga ... *

Tandai satu oval saja.

- a. produsen
- b. konsumen I
- c. pengurai
- d. konsumen II

Isilah titik titik dengan jawaban yang tepat !

6. *

Suatu ekosistem teridri atas komponen biotik dan komponenabiotik.Sebuah lingkungan terdiri atas bagian yang hidup (biotik)dan bagian tak hidup (abiotik). Bagian yang hidup di sebuah lingkunganterdiri atas tumbuhan, hewan, dan makhluk hidup lainnya. Bagianlingkungan yang tak hidup terdiri atas cahaya matahari, air, udara dantanah.

Ide pokok paragraf diatas adalah ...

7. *

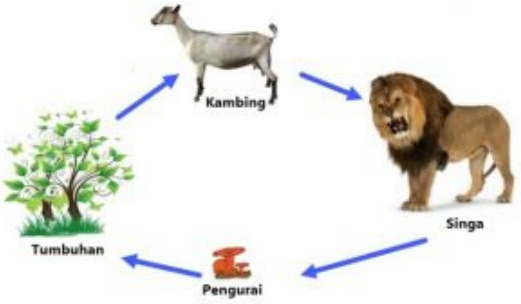

Jelaskan rantai makanan diatas ...

Konten ini tidak dibuat atau didukung oleh Google.

Google Formulir